1 Вычисли.

6 + 3 – 7 = ☐

8 – 5 + 2 = ☐

7 – 4 + 5 = ☐

40 + 20 = ☐☐

63 – 3 = ☐☐

74 – 10 = ☐☐

2 Реши задачи.

Летом Тарас прочитал 10 книжек, а Роман — на 8 книжек больше. Сколько книжек прочитал Роман?

Ответ:

В автобусе ехали 27 взрослых и 7 детей. На сколько больше было взрослых, чем детей?

Ответ:

3 Подчеркни в данных числах: цифру, которая обозначает десятки — одной чертой; цифру, которая обозначает единицы — двумя.

19 28 34 50 71 44 86 97

4 Заполни таблицу.

Слагаемое	4	6		8	5	
Слагаемое	5		5		3	2
Сумма		9	7	10		8

www.e-ranok.com.ua

Нумерация чисел первой сотни

1 Запиши «соседей» данных чисел.

□□ 13 □□ □□ 51 □□ □□ 49 □□

□□ 20 □□ □□ 60 □□ □□ 97 □□

2 Заполни пропуски.

7 – 3 – □ = 2

4 + 3 + □ = 10

2 + □ + □ = 10

36 + □□ + 2 = 58

57 – 20 – □ = 34

98 – □□ – 3 = 5

3 Реши задачу.

На лугу паслось 10 козлят, потом привели ещё трёх. Сколько козлят стало на лугу?

Ответ:

Наведи прямые линии красным цветом, отрезки — коричневым, ломаные незамкнутые — синим, кривые — жёлтым.



www.e-ranok.com.ua

1 Заполни таблицу.

Уменьшаемое	9	10	9			7
Вычитаемое	2			1	5	4
Разность		3	7	6	5	

2 Составь равенства по образцу.

60 + 4 = 64

64 – 4 = 60

64 – 60 = 4

70 + 8 = □□

85 – 5 = 80

85 – 80 = □

80 + 5 = □□

53 – 3 = □

3 Выполни действия по образцу.

56 + 2 = 58

5 8

44 + 5 = □□

□ □

72 + 24 = 96

9 6

35 + 23 = □□

□ □

4 Реши задачу.

Приехав с моря, Оля привезла 10 ракушек. Семь из них она отнесла в школу. Сколько ракушек осталось у Оли?

Ответ:

www.e-ranok.com.ua

Нумерация чисел первой сотни

1 Каких монет больше? На сколько? Посчитай количество копеек на каждом рисунке.

Где сумма копеек больше? На сколько?

2 Вычисли.

45 + 13 =

34 + 25 =

77 – 32 =

68 – 42 =

3 Составь и реши задачу.

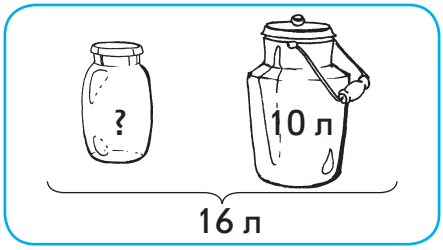

Ответ:

4 Запиши числа, на один десяток меньше данных.

48 63 50 38 72 88 29 59 97

www.e-ranok.com.ua

1 Дополни числа до 10.

8 + □ 6 + □ 9 + □ 7 + □

2 Заполни пустые клеточки.

8 + 2 = □□ 9 + 1 = □□ 7 + 3 = □□

8 + 3 = □□ 9 + 2 = □□ 7 + 4 = □□

2 □ 1 □ 3 □

11 − 6 = □ 11 − 3 = □ 11 − 4 = □

1 5 1 □ 1 □

3 Измерь длины отрезков и запиши разницу между ними.

4 Реши задачу.



Богдан выиграл в шахматы 11 партий, а проиграл 3. На сколько больше партий Богдан выиграл, чем проиграл?

Ответ:

5* Установи закономерность. Зачеркни лишнюю фигуру.